ならべ方

A君B君C君がリレーで走る時の3人の走る順番の決め方は何通りあるでしょう？

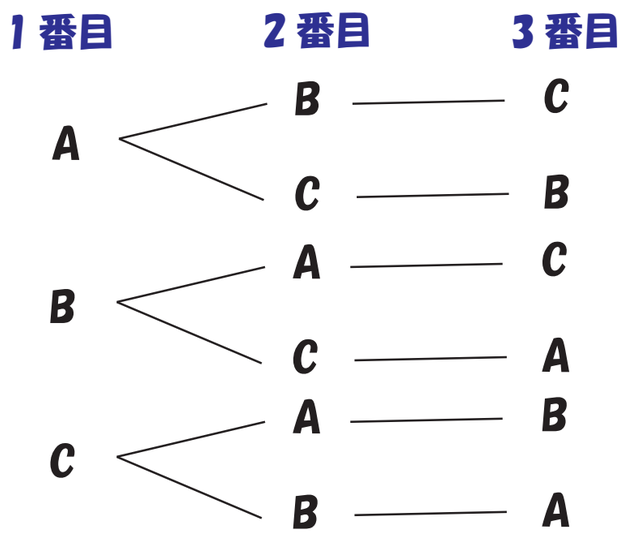

6通りとなる

1　3　5　7　のカードが一枚ずつあり
この4枚で4ケタの整数をつくります。
整数は何通りできるでしょう？

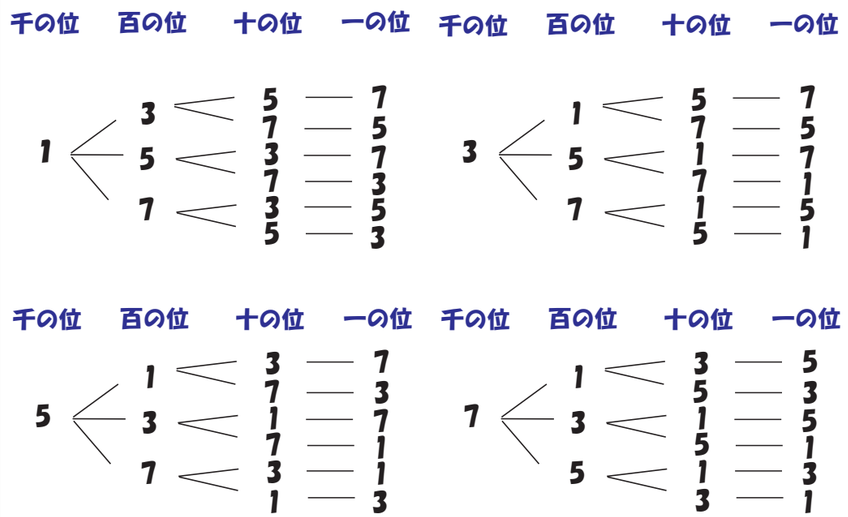

24通りとなる

1　3　5　7　のカードが一枚ずつあり
この中から2枚選び2ケタの整数をつくります。
整数は何通りできるでしょう？

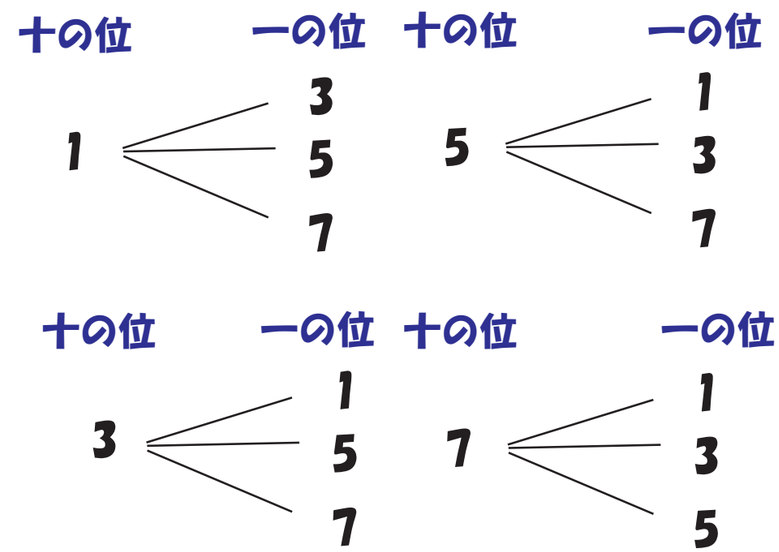

12通りとなる

コインを続けて3回なげる時の裏と表の出かたは何通りありますか？

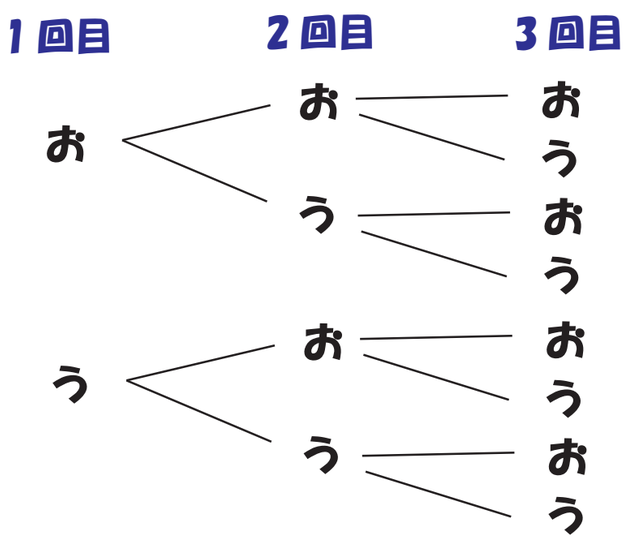

※表を　お　裏を　う　と表す

8通りとなる

1組　2組　3組　4組でサッカーの試合をします。どの組とも1回ずつ試合をすると全部で何試合になりますか？

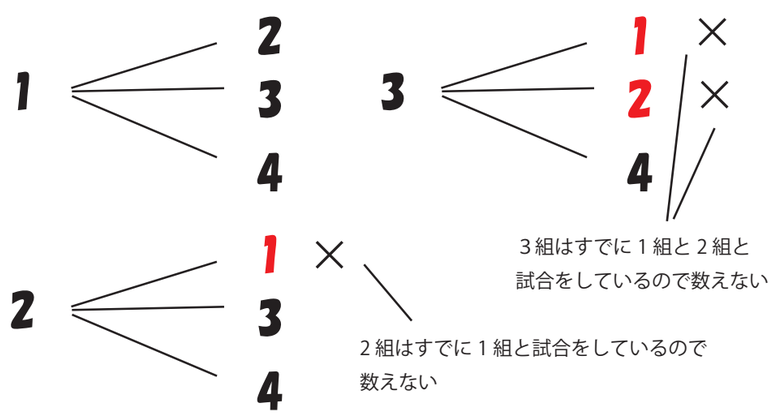

6試合となる

ABCDEFGHの8チームでトーナメント戦を行います。全部で何試合行われるでしょう？

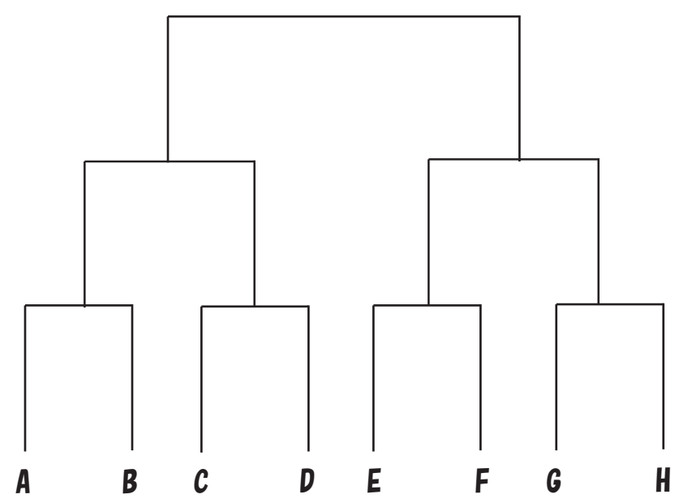

トーナメント戦1試合で1チームずつ負けて減っていき
最後に1チーム残るのではチーム数引く1が試合数となる

7試合となる